DAY — **07** SEAT NUMBER | | | | | | |

2025	II	18	1100	**J-299**	(G)

HOME MANAGEMENT (61)

Time : 3 Hrs. **(7 Pages)** **Max. Marks : 70**

સૂચના : *(૧) દરેક પ્રશ્ન ફરજિયાત છે.*

(૨) જમણી બાજુના અંક પૂર્ણ ગુણ દર્શાવે છે.

(૩) દરેક નવા પ્રશ્નનો ઉત્તર નવા પૃષ્ઠથી શરૂ કરવો.

પ્ર. ૧. (અ) નીચે આપેલ પર્યાયમાંથી સૌથી યોગ્ય પર્યાય શોધી વાક્ય ફરીથી લખો : (૬) **[૧૮]**

(૧) ધ્યેય નક્કી કરવો એ સમય વ્યવસ્થાનું .....પગથિયું છે.

(અ) દ્વિતીય (બીજું)

(બ) પ્રથમ

(ક) ત્રીજું

(૨) ઊર્જા એટલે ..... કરવાની ક્ષમતા.

(અ) શારીરિક કાર્ય

(બ) માનસિક કામ

(ક) શારીરિક અને માનસિક કામ

(૩) ..... એ ૧૮૭૯ માં ઇનકન્ડસેંટ બલ્બની શોધ કરી.

(અ) થૉમસ એડિસન

(બ) જેમ્સ મૈક્સવેલ

(ક) માયકલ ફરાડે

(૪) કૌટુંબિક આવકમાં ..... એ નિયમિત અને નિશ્ચિત આવકનો સ્ત્રોત ગણાય છે.

(અ) શૅર

(બ) લાભાંશ

(ક) વેતન

(૫) UPI (યુ.પી.આઇ.)નું ઉદાહરણ ..... છે.

(અ) ભીમ (BHIM)

(બ) એન.ઇ.એફ.ટી. (NEFT)

(ક) આર.ટી.જી.એસ. (RTGS)

(૬) ગતિ અને સમયનાં અધ્યયનને ..... લિપિથી સંબોધવામાં આવે છે.

(અ) ગિલબ્રેથ

(બ) થર્બલીગ

(ક) ઑપરેશન ચાર્ટ

(બ) 'અ' જૂથમાંથી અને 'બ' જૂથમાંથી યોગ્ય જોડકા જોડો : (૬)

જૂથ 'અ'	જૂથ 'બ'
(અ) સજાવટનાં સાધનો	(૧) સમયની નોંધ
(બ) રાજસ્થાન	(૨) ભૂમિતિની રચના
(ક) માનસિક પ્રયત્ન	(૩) વૉલ હેંગિંગ
(ડ) બંધ (stop) ઘડિયાળ	(૪) મંડાના
(ઇ) દૂધમાં સ્ટાર્ચ	(૫) અલ્પના
(ફ) પેટર્ન	(૬) અભ્યાસ કરવો
	(૭) ભેળસેળ

(ક) સૂચના મુજબ કરો : (૬)

(૧) આકૃતિ પૂર્ણ કરો :

પ્રાથમિક રંગ

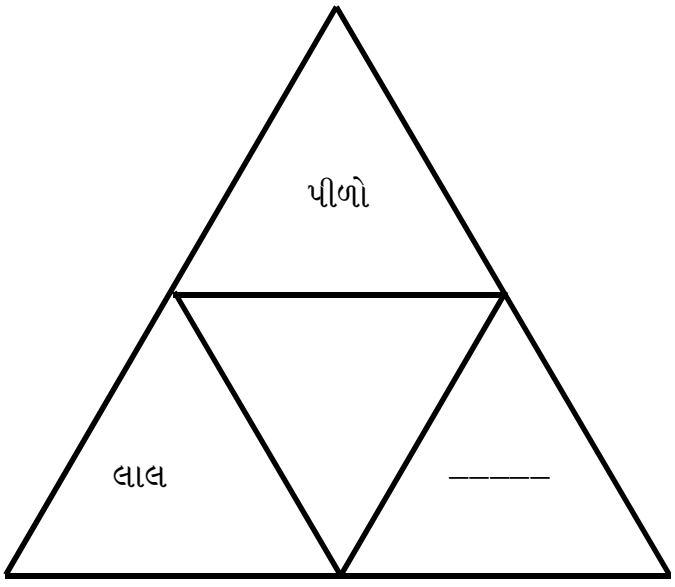

(૨) નીચે આપેલ વાક્ય સાચું છે કે ખોટું તે જણાવો :

અંદાજપત્રક એ ઘરગથ્થું હિસાબનો પ્રકાર નથી.

(૩) પ્રથમ સહસંબંધને ધ્યાનમાં રાખી બીજો સહસંબંધ પૂર્ણ કરો :

ઘડિયાળનો સમય : અભ્યાસનો સમય : : ફાજલ સમય : .....

(૪) અયોગ્ય શબ્દ ઓળખો :

(અ) બ્રાન્ડ લેબલ

(બ) ગ્રેડ લેબલ

(ક) ગ્રાહક સંરક્ષણ

(ડ) વર્ણનાત્મક લેબલ

(ઇ) માહિતીપૂર્ણ લેબલ

(૫) રેખાંકિત શબ્દને યોગ્ય રીતે ગોઠવો :

ઉપસાધનનું <u>ત્મ કા ક ર્યા</u> મૂલ્ય તેમજ સૌંદર્ય મૂલ્ય દેખીતું હોય છે.

(૬) હું કોણ ?

સંકેત : મારી ડિઝાઇનમાં 'ગો પદ્મ', 'શંખ', 'ચક્ર' આ પારંપરિક ચિહ્ન વાપરવામાં આવે છે.

પ્ર. ૨. (અ) નીચેમાંથી કોઈપણ <u>છ</u> પ્રશ્નના ઉત્તર લખો : (૧૨) **[૧૬]**

(૧) સમજાવો : કાર્યમાં લય સ્થાપિત કરવું.

(૨) ગૃહઉદ્યોગ અને લઘુઉદ્યોગ સમજાવો.

(૩) ફાજલ સમયની સંજ્ઞા સમજાવો.

(૪) નીચે આપેલ તક્તો પૂર્ણ કરો.

સ્વૈચ્છિક બચત યોજના

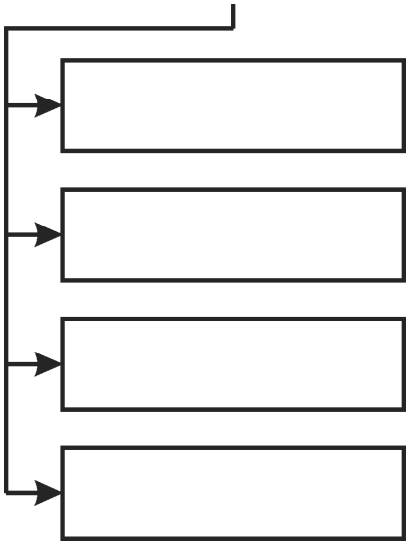

(૫) લાકડા અને કાંચના સાધનોની તમે કઈ રીતે સંભાળ લેશો ?

(૬) નીચે આપેલ આકૃતિ ઓળખી સમજાવો :



(૭) સૌર ઊર્જાના ફાયદા લખો.

(બ) ટૂંકમાં ઉત્તર લખો (કોઈપણ બે) : (૪)

(૧) સમય ક્ષણભંગુર હોય છે. કારણ સમજાવો.

(૨) મૂલ્યાંકન સમજાવો.

(૩) અવકાશ (space)નું મહત્ત્વ લખો.

પ્ર. ૩. (અ) નીચેમાંથી કોઈપણ ચાર પ્રશ્નના ઉત્તર લખો : (૧૨) **[૧૮]**

(૧) લેબલનાં કાર્ય લખો.

(૨) માનસિક થાક અને શારીરિક થાક વચ્ચેનો તફાવત લખો.

(૩) નીચે આપેલ આકૃતિ ઓળખી સમજાવો :



(૪) ખર્ચમાં કપાત કરી કૌટુંબિક આવક કઈ રીતે વધારી શકાય ?

(૫) પાણી ઉપર રંગોળી સમજાવો.

(બ) ટૂંક નોંધ લખો (કોઈપણ બે) : (૬)

(૧) માનવીય ઊર્જાનું વ્યવસ્થાપન

(૨) સાચી આવક

(૩) ક્રેડિટ કાર્ડ

પ્ર. ૪. નીચેના પ્રશ્નના ઉત્તર લખો : (૬) **[૧૮]**

(અ) (૧) વ્યાખ્યા લખો : ગ્રાહક (૧)

(૨) યોગ્ય ખરીદી માટેના માર્ગદર્શક તત્વ લખો. (૫)

અથવા

વિવિધ રંગ યોજના (colour schemes) નું વર્ણન કરો.

(બ) (૧) વ્યાખ્યા લખો : હિસાબ (૧) (૬)

(૨) હિસાબ રાખવાની પદ્ધતિ સમજાવો. (૫)

અથવા

સમયની વિશેષતાઓ સમજાવો.

(ક) મુંડેલના પરિવર્તનના વર્ગનું ઘરગથ્થું કામ માટે વાપર કઈ રીતે કરશો ? (૬)

અથવા

નીચે આપેલ મહત્ત્વપૂર્ણ સાધનોની કાળજી કઈ રીતે લેશો ?

(૧) ચિત્ર

(૨) ફૂલદાની

(૩) ઈન્ડોર (ઘરની અંદર) પ્લાંટ્સ

◆◆◆